SYMÉTRIE CENTRALE – FICHE 3

Exercice 1 : Construire avec précision le symétrique par rapport à O de chaque figure en utilisant les instruments qui vous semblent nécessaire.

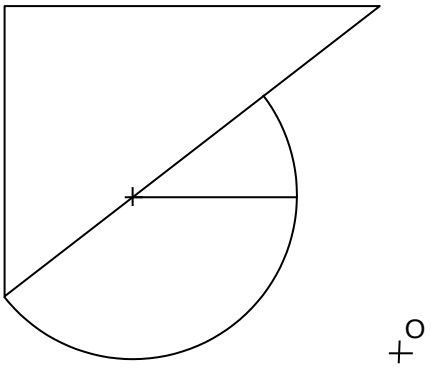

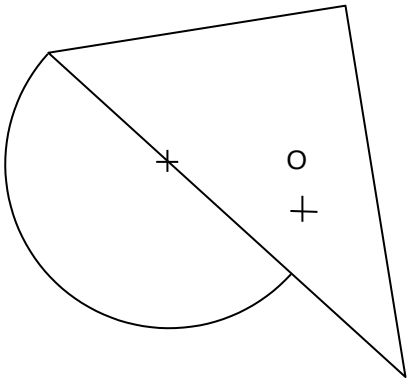

Exercice 2.: Construire la figure symétrique de le lettre L.

a) Par rapport à la droite (d)
b) Par rapport au point O.

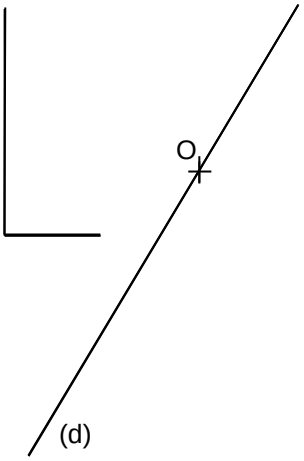

Exercice 3 :

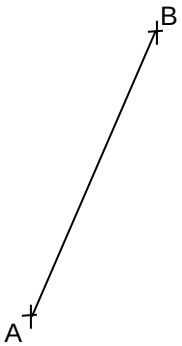



A' est le symétrique de A par rapport à un point O qui a été effacé.

Trace le point O et finis la construction.